EXAMS DAILY

# TNUSRB
# Psychology Test - 22

Q.1) 8988 ÷ 8 ÷ 4 = ?

a) 4494 b) 561.75
c) 2247 d) 280.875

Q.2) ஒரு மாணவன் ஒரு எண்ணுடன் 5/3 என்ற எண்ணிற்கு பதிலாக தவறுதலாக 3/5 ஐ பெருக்கிவிட்டான் எனில் அந்த கணக்கில் தவறான விடையின் சதவீதம் என்ன?

a) 34% b) 44%
c) 54% d) 64%

Q.3) ஒரு பற்பசையின் சந்தை விலை ரூ.80 பற்பசையில் தள்ளுபடி செய்யப்பட்ட பின்பு அதன் விற்பனை விலை ரூ.68 எனில் அதன் தள்ளுபடி சதவீதம் என்ன?

a) 12%
b) 14%
c) 15%
d) இவற்றில் எதுவும் இல்லை

Q.4) BLACK : CMBDL இதனுடன் தொடர்புடைய எழுத்தைக் காண்க

a) LIGHT:MJHJU
b) TOTAL : UQUBM
c) SIGHT : TJHJV
d) MONEY : NPOFZ

Q.5) வேறுபட்டதை தேர்ந்தெடு

a) ELMT b) AEGC
c) OFMK d) PALX

Q.6) மாலாவை பார்த்து ப்ரியன் சொன்னார். அவளது அம்மா என் அம்மாவின் ஒரே மகள். எனில் ப்ரியன் மாலாவிற்கு என்ன உறவு?

a) தந்தை b) சகோதரன்
c) கணவர் d) மாமா

Q.7) பின்வரும் எண் தொடரில் விடுபட்ட எண்ணைக் காண்க.
2,3,6,18,108, ?

a) 1944 b) 1658

c) 648 d) 1008

Q.8) கொடுக்கப்பட்ட வார்த்தைகளை பொருள் தரும் வகையில் வரிசைப்படுத்துக:

1) தோள்பட்டை, 2) மணிகட்டு

3) முழங்கை 4) உள்ளங்கை

5) விரல்கள்

a) 5,4,2,3,1 b) 3,4,5,2,1

c) 3,1,4,2,5 d) 2,4,5,3,1

Q.9) கேள்விக்குறி உள்ள இடத்தில், கீழ்காணும் எண்களில் எது வரும்?

| | |
|---|---|
| 3 | 5 |
| 15 | 8 |

| | |
|---|---|
| 11 | 8 |
| 88 | 19 |

| | |
|---|---|
| 5 | 4 |
| ? | 19 |

a) 20

b) 25

c) 30

d) இவற்றில் ஏதுமில்லை

Q.10) பின்வரும் படத்தில் எத்தனை முக்கோணங்கள் உள்ளன என தேர்ந்தெடுக்க?

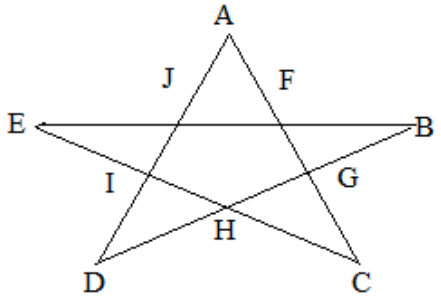


a) 5 b) 8

c) 14 d) 10

Q.11) ஆய்வு செய்தலின் அடிப்படை?

a) புலன் உணர்வு b) நினைவு

c) புலன் காட்சி d) மொழி

Q.12) ஒரு புது இடத்தில் நீ சமான்கள் வாங்க கடைத்தெருவுக்கு செல்ல நினைக்கிறாய். நீ அதிகம் செய்ய விளையும் காரியம்.

a) கடைத்தெருவுக்கு போகும் எண்ணத்தை கைவிடுதல்

b) தானாகவே இடத்தை அறிதல்
c) இடம் தெரிந்தவரை தன்னுடன் அழைத்துச் செல்லுதல்
d) மற்றொருவரை கடைத்தெருவுக்கு போகச் செய்தல்

Q.13) ஒரு எண்ணின் 497/249 மடங்கில் 3/7 மடங்கு 639 எனில் அவ்வெண்?
a) 474 b) 774
c) 477 d) 747

Q.14) ஒரு கோட்டில் அமையாத மூன்று புள்ளிகள் வழியாக எத்தனை வட்டங்கள் வரையலாம்?
a) ஒன்று b) இரண்டு
c) மூன்று d) எண்ணற்றவை

Q.15) படத்திலிருந்து x ன் மதிப்பு

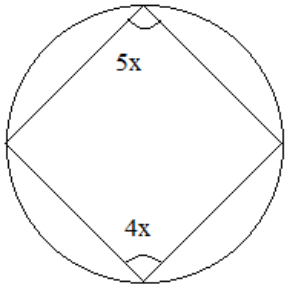


a) $10^0$ b) $20^0$
c) $30^0$ d) $90^0$

Q.16) நான்கு அடுத்தடுத்த எண்களின் கூடுதல் எப்பொழுதுமே
a) இரட்டை
b) ஒற்றை
c) பகா எண்
d) சிலநேரம் இரட்டை சிலநேரம் ஒற்றை

Q.17) ஒரு குறிப்பிட்ட சங்கேத மொழியில் DOME என்பது 8943 என்றும், MEAL என்பது 4321 என்றும் குறியிடப்பட்டால் 38249 என்ற குறியீட்டின் எழுத்துக்கள் எது?
a) FUBNO b) UFNBM
c) BNFUE d) EDAMO

Q.18) ஏழு இலக்க மிகப்பெரிய 15 ஆல் வகுபடும் எண்
a) 9999990 b) 9999999
c) 9999915 d) 9999995

Q.19) ஒருவரும் நல்லவரல்லர், ஆனால் சில மனிதர்கள் கெட்டவர் அல்லர் அப்படியானால்?

a) எல்லோரும் கெட்டவரல்லர்
b) ஒருவரும் கெட்டவரல்லர்
c) எல்லோரும் நல்லவரல்லர்
d) எல்லோரும் கெட்டவர்கள்

Q.20) ஒருவன் வடக்கு நோக்கி 10கி.மீ நடந்து அங்கிருந்து 6கி.மீ தெற்கு நோக்கி நடக்கிறான். அவன் மீண்டும் கிழக்கு நோக்கி 3கி.மீ நடந்தால் அவன் புறப்பட்ட இடத்திலிருந்து எந்த திசையில் எவ்வளவு தூரத்தில் இருப்பான்?

a) 15கி.மீ மேற்கு b) 7கி.மீ கிழக்கு
c) 7கி.மீ வடகிழக்கு d) 5கி.மீ வடகிழக்கு

Q.21) 243, 5,81,15,27,45,9,?, இந்த தொடரில் அடுத்த எண் எதுவாக இருக்கும்?

a) 8 b) 6
c) 130 d) 135

Q.22) பின்வரும் நான்கு எண்களில் பொருந்தாதது?

a) 121 b) 132
c) 144 d) 154

Q.23) கீழ்கண்டவற்றில் 4க்கு எதிரில் உள்ள எண் யாது?

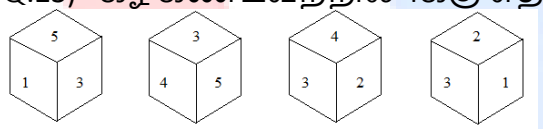


a) 1 b) 2
c) 5 d) 6

Q.24) 400 பக்கங்களை கொண்ட ஒரு புத்தகத்தில் பக்கங்களின் எண்களை எழுத எத்தனை இலக்கங்கள் தேவைப்படுகின்றன?

a) 1090 b) 1091
c) 1092 d) 1093

Q.25) 9 – 3 = 819, 7 – 6 = 499, 6 – 5 = 369 எனில் 12 – 8 = ?

a) 1449 b) 649
c) 879 d) 1219

Q.26) கீழ்காணும் எண்களில் தலைகீழ் இல்லாத எண்?

a) 1 b) -2

c) 0 d) 1/3

Q.27) தொடர்பில்லா சொல் எது?

a) ஆசிரியர் b) மாணவர்

c) பேராசிரியர் d) விடுதிக்காப்பாளர்

Q.28) கீழ்கண்ட கூற்றுகளை படித்து முடிவில் விடையளிக்கவும்.

ரமேஷ் வாலிபால் விளையாடுவார். ஆனால் கிரிக்கெட் விளையாடமாட்டார்.

முருகன் கிரிக்கெட் விளையாடுவார். ஆனால் வாலிபால் விளையாடமாட்டார்.

கலைமணி கபடி விளையாடுவார். ஆனால் கிரிக்கெட் விளையாடமாட்டார்.

ராகவன் வாலிபால் மற்றும் கிரிக்கெட் விளையாடுவார் கீழ்கண்டவர்களுள் யார் ராகவனைப்போல் விளையாட்டில் சிறந்து விளங்கியவர்.

a) ரமேஷ்

b) முருகன்

c) கலைமணி

d) இவர்களில் எவருமில்லை

Q.29) பின்வரும் பின்னங்களில் அதிகமானது?

a) $\frac{2}{3}$ b) $\frac{3}{4}$

c) $\frac{4}{5}$ d) $\frac{5}{6}$

Q.30) 250 என்ற எண்ணில் 12% குறைவான எண்ணைக் காண்க.

a) 220 b) 2150

c) 200 d) 245